# 3.7. IDA- JA LÄÄNE-SUUNA MÄÄRAMINE PÄIKESE ABIL

## IDA JA LÄÄS

Mine kesk-päeval päikese-paistelise ilmaga õue.
Keera selg päikese poole. Nüüd vaatad sa põhja suunas.
Siruta käed kahele-poole kõrvale.

**Parem käsi** näitab **ida** suunda.
**Vasak käsi** osutab **lääne** suunas.

### Ülesanne 1

**1. Vaata pilti.**

**2. Värvi pildil poisi parem käsi.**

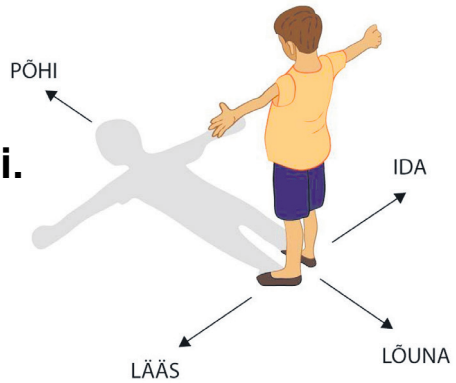


### Ülesanne 2

**1. Vaata pilti.**

**2. Värvi poisi parem käsi.**

**3. Loe sõnad.**

*põhi, lõuna, ida, lääs*

**4. Kirjuta ilma-kaarte nimetused pildile.**

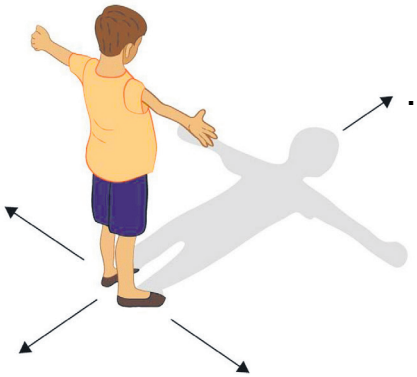

..... .....

..... .....

## Ülesanne 3

1. **Vaata pilti.**
2. **Määra pildil põhi-ilmakaared.**
3. **Kirjuta ilma-kaarte nimetused pildile.**



## Ülesanne 4

1. **Vaata pilti eelmises ülesandes.**
2. **Loe lausete algused ja neli ilmakaare nimetust.**
3. **Jooni lausesse sobiv nimetus.**

| | |
|---|---|
| **Maja** asub... | *põhjas, lõunas, idas, läänes.* |
| **Mets** asub... | *põhjas, lõunas, idas, läänes.* |
| **Traktor** asub... | *põhjas, lõunas, idas, läänes.* |
| **Või-lilled** on... | *põhjas, lõunas, idas, läänes.* |